SINCE 2013

We Shine Academy®

guiding you to get through

MATHS

$\left(-1\frac{2}{7}\right)+\left(-3\frac{5}{7}\right)+\left(6\frac{4}{7}\right)$ ன் மதிப்பு _____.

$\left(-1\frac{2}{7}\right)+\left(-3\frac{5}{7}\right)+\left(6\frac{4}{7}\right)$ is _____.

$\left(-1\frac{2}{7}\right)+\left(-3\frac{5}{7}\right)+\left(6\frac{4}{7}\right)$ ன் மதிப்பு _____.

$\left(-1\frac{2}{7}\right)+\left(-3\frac{5}{7}\right)+\left(6\frac{4}{7}\right)$ is _____.

(A) $\frac{3}{7}$

(B) $\frac{5}{7}$

(C) $\frac{11}{7}$

(D) $\frac{19}{7}$

ஒரு நகரத்தின் மக்கள் தொகை 2014-ல் 1,80,000. அது ஒவ்வொரு ஆண்டும் 20% பெருகுமானால் 2016-ஆம் ஆண்டு மக்கள் தொகை என்ன?

The population of a city in the year 2014 is 1,80,000 and increases at a rate of 20% per year. Find the population of the city in the year 2016?

We Shine Academy® Guiding you to get through TNPSC | TNUSRB | TRB | TET | SSC | BANK EXAM

ஒரு நகரத்தின் மக்கள் தொகை 2014-ல் 1,80,000. அது ஒவ்வொரு ஆண்டும் 20% பெருகுமானால் 2016-ஆம் ஆண்டு மக்கள் தொகை என்ன?

The population of a city in the year 2014 is 1,80,000 and increases at a rate of 20% per year. Find the population of the city in the year 2016?

(A) 2,40,000

(B) 2,59,200

(C) 2,55,000

(D) 2,54,300

3 – 25 என்ற எண்ணில் – குறியிட்ட இடத்தில் எந்த எண் போடப்பட்டால் அது முழு வர்க்கம் ஆகும்?

3 – 25 here, which of the following number is suitable in –, so that the number will be a perfect square?

SINCE 2043 We Shine Academy® Guiding you to get through TNPSC | TNUSRB | TRB | TET | SSC | BANK EXAM

3 – 25 என்ற எண்ணில் – குறியிட்ட இடத்தில் எந்த எண் போடப்பட்டால் அது முழு வர்க்கம் ஆகும்?

3 – 25 here, which of the following number is suitable in –, so that the number will be a perfect square?

(A) 1

(B) 0

(C) 4

(D) 6

10 குழந்தைகளின் சராசரி மதிப்பெண் 80 எனில் அவர்களின் மொத்த மதிப்பெண்

The average mark of 10 children is 80 then their total mark is

10 குழந்தைகளின் சராசரி மதிப்பெண் 80 எனில் அவர்களின் மொத்த மதிப்பெண்

The average mark of 10 children is 80 then their total mark is

(A) 200

(B) 300

(C) 800

(D) 400

SINCE 2013 We Shine Academy® Guiding you to get through TNPSC | TNUSRB | TRB | TET | SSC | BANK EXAM

ஒரு ஆண் மற்றும் ஒரு பெண் இருவரும் சேர்ந்து ஒரு வேலையை செய்கிறார்கள். ஆண் ஒரு வேலையை 4 நாட்களில் செய்து முடிப்பார். ஒரு பெண் அதே வேலையை 12 நாட்களில் செய்து முடிப்பார். அவ்வேலையை இருவரும் சேர்ந்து எத்தனை நாட்களில் முடிப்பார்கள்?

A man and woman are engaged in a work. A man can do a piece of work in 4 days and the woman can do in 12 days. Find how many days will they take to finish it together?

ஒரு ஆண் மற்றும் ஒரு பெண் இருவரும் சேர்ந்து ஒரு வேலையை செய்கிறார்கள். ஆண் ஒரு வேலையை 4 நாட்களில் செய்து முடிப்பார். ஒரு பெண் அதே வேலையை 12 நாட்களில் செய்து முடிப்பார். அவ்வேலையை இருவரும் சேர்ந்து எத்தனை நாட்களில் முடிப்பார்கள்?

A man and woman are engaged in a work. A man can do a piece of work in 4 days and the woman can do in 12 days. Find how many days will they take to finish it together?

(A) 6 days

(B) 5 days

(C) 4 days

(D) 3 days

கீழே கொடுக்கப்பட்ட அளவுகளில் எவை செங்கோண முக்கோணத்தை அமைக்கும்?

Which of the following set of measurements will form a right angle triangle?

கீழே கொடுக்கப்பட்ட அளவுகளில் எவை செங்கோண முக்கோணத்தை அமைக்கும்?

Which of the following set of measurements will form a right angle triangle?

(A) 6, 9, 12

(B) 5, 8, 10

(C) 5, 5, $5\sqrt{2}$

(D) 3, 4, $4\sqrt{2}$

$\sqrt{609+\sqrt{248+\sqrt{60+\sqrt{7+\sqrt{81}}}}}$ ன் மதிப்பு

The value of $\sqrt{609+\sqrt{248+\sqrt{60+\sqrt{7+\sqrt{81}}}}}$

$\sqrt{609+\sqrt{248+\sqrt{60+\sqrt{7+\sqrt{81}}}}}$ ன் மதிப்பு

The value of $\sqrt{609+\sqrt{248+\sqrt{60+\sqrt{7+\sqrt{81}}}}}$

(A) 20

(B) 25

(C) 16

(D) 9

ஒரு வீட்டின் விலை 15 இலட்சம் ரூபாயிலிருந்து 12 இலட்சம் ரூபாயாகக் குறைந்தது எனில் குறைந்த சதவீதம்

The price of a house is decreased from rupees fifteen lakhs to rupees twelve lakhs. The percentage of decrease is .

ஒரு வீட்டின் விலை 15 இலட்சம் ரூபாயிலிருந்து 12 இலட்சம் ரூபாயாகக் குறைந்தது எனில் குறைந்த சதவீதம்

The price of a house is decreased from rupees fifteen lakhs to rupees twelve lakhs. The percentage of decrease is

(A) 10%

(B) 20%

(C) 30%

(D) 40%

$3(t-3)=5(2t+1)$ எனில் $t=?$

If $3(t-3)=5(2t+1)$ then $t=?$

$3(t-3)=5(2t+1)$ எனில் $t=?$

If $3(t-3)=5(2t+1)$ then $t=?$

(A) -2

(B) 2

(C) -3

(D) 3

$$\frac{1.75\times1.75+2\times1.75\times0.75+0.75\times0.75}{1.75\times1.75-0.75\times0.75}$$ ன் மதிப்பு

The value of $\frac{1.75\times1.75+2\times1.75\times0.75+0.75\times0.75}{1.75\times1.75-0.75\times0.75}$

$$\frac{1.75\times1.75+2\times1.75\times0.75+0.75\times0.75}{1.75\times1.75-0.75\times0.75}$$ ன் மதிப்பு

The value of $\frac{1.75\times1.75+2\times1.75\times0.75+0.75\times0.75}{1.75\times1.75-0.75\times0.75}$

(A) 3.5

(B) 6.25

(C) 1

(D) 2.5

TNPSC
COMBINED
DIRECT CLASS
ONLINE CLASS
Available
Time Tracker
Audio Study Materials
Easy EMI
Speed Maths
Book Set Materials - Count
SINGLE FEE
MULTIPLE EXAMS
₹19,999
ADMISSION OPEN
JOIN NOW
SINCE 2013
We Shine Academy
guiding you to get through
TNPSC | TNUSRB | RRB | SSC | BANK EXAM
+91 8939 144 344 | +91 8939 244 344

SINCE 2013

We Shine Academy®

guiding you to get through

ISO 9001-2015 Certified Educational Institution

உங்களின் அரசு வேலை கனவிற்கான முதற்படியை இன்றே தொடங்குகள்.!

*Guaranteed Central or State Government jobs within 6 months of course completion

TNPSC GROUP I 23rd RANK

Our Central and State GOVERNMENT OFFICERS

TNPSC | TNUSRB | TET | SSC | BANK EXAM

* Terms and conditions apply

OUR GOVERNMENT OFFICERS

K. THANGA MEENA DEVI

இந்து சமய அறநிலையத் துறை,
உதவியாளர் பணி



STUDENTS WITH APPOINTMENT ORDER







CONGRATULATIONS

ON SUCCESSFULLY GETTING PLACED IN

Angaleswaran
Sub Inspector

Barkavi. K
Educational Dept.

Anandhalakshmi J
IBPS RRB clerk

Sankara Gomathy.S
Village Administrative Officer

Jeeva. R
Chennai High court

Harisankar K
Police Contable

Vinoth
District Court

Adityan
Agriculture Dept.

Our Central and State
GOVERNMENT OFFICERS

Thennarasu
TNUSRB Police

Sangeetha
TNPSC GROUP II
Exam Cleared

Aathithyan G
TNPSC Exam Agriculture Dept.

Kumari
SBI (PO)

Bala Kumaran V
TNPSC Exam Agriculture Dept.

Bhavya Shree R
Cleared NICL – Prelims Exam

Kameshwaran
TNPSC GROUP II
Exam Cleared

Michael Priyanka
IBPS SCALE–II Officer

Murali
Indian Bank

Jeyanthi
TNPSC GROUP IV

Nirmala S
Group II Interview Post

Varun Kumar M
SSC GD

Anjali
IBPS SO (IT OFFICER)

Manimegalai
Judiery Department

Pankajavalli
TNPSC Stenographer

Parasuraman
Sub Inspector

Abdul Rahman
SSC – MTS

Pradeepraj N
Group 2 A prelims

Aswini
SSC & BANK

Thennarasu
TNUSRB Police

Veera Perumal
TNPSC GROUP II
Exam Cleared

Sivaranjani
TNPSC GROUP II
Exam Cleared

Manimozhi
TNPSC GROUP II
Exam Cleared

Harisankar K
Police Constable

Kavitha
TNUSRB Police
Exam Cleared

B. Benazir Banu
TNUSRB Police
Exam Cleared

Aswin Kumar
Tamilnadu Post Office

Divya
TNPSC Group II
Exam Cleared

Mathumathi P
Assistant Inspector of Labour

Manimaran N
Sub Inspector

THE WESHINE JOURNEY.

www.weshineacademy.com

8939 144 344 | 8939 244 344

Our Central and State
GOVERNMENT OFFICERS

Gayathri
RBI

Aswin Kumar. S
TN Postal Dept.

Yesu Amirtham
TNPSC HIGH COURT

M.Esther Angeline
Police Constable

Madhumathi
TNPSC GROUP 1
Exam Cleared

Sabeen Banu
TNPSC HIGH COURT

D.Vignesh
Police Constable

Rahmath Nisha
Labour Dept.

GOKUL. S
SSC/BANK

JAI GANESH
SSC/BANK

C.Muthu Selvi
Police Constable

SOWMEYA.S
SSC/BANK

Fahad
Social Welfare Dept.

KIRAN KUMAR
SSC/BANK

Hari Shankar. P
LIC

Parasuraman
Police Constable

PADMA PRIYA PT
LIC

SURESH .R
LIC

P. Bharathkumar
TNUSRB SI

Naveen .D
SSC/BANK

HARI SHANKAR.P
LIC

S.Madhavan
Police Constable

Anjali .R
SSC/BANK

M. Sivasubbu
Police Constable

Additional Superintendent Of Police (ADSP) with Sub-Inspector Achievers

Also We provide internal coaching for

Trusted Partnership with

DHAANISH AHMED COLLEGE OF ENGINEERING

DWARAKA DOSS GOVERDHAN DOSS VAISHNAV COLLEGE

NEW PRINCE SHRI BHAVANI COLLEGE OF ENGINEERING AND TECHNOLOGY

RESERVE BANK OF INDIA

ATHAYI GROUP OF EDUCATIONAL INSTITUTIONS

ANAND INSTITUTE OF HIGHER TECHNOLOGY

SHRI KRISHNASWAMY COLLEGE FOR WOMEN

THE NEW INDIA ASSURANCE CO. LTD.

EMPLOYMENT OFFICE- TNPSC COACHING IN RAMANATHAPURAM

www.weshineacademy.com

8939 144 344 | 8939 244 344

SINCE 2013

We Shine Academy®

guiding you to get through

TNPSC | TNUSRB | TET | SSC | BANK EXAM

TNPSC GROUP-I Express TEST SERIES

Starts on:
Saturday | 07-02-2026

Features:

- 5000+ Questions
- 37 Total Tests
- 21 General Studies Tests
- 05 Revision Tests
- 11 Full-Length Mock Tests

Offline: ₹5,999/-

Online: ₹4,999/-

Offer:
We Shine Old Students - **FREE!**

Teachers Recruitment Board

Perasiriyar Anbazhagan Kalvi Valagam, College Road, Chennai - 600006.

Hall Ticket for OMR Examination (Objective Type)
for the Tamil Nadu Teacher Eligibility Test, Paper – II - 2025
[Notification No. 03/2025 Dated: 11.08.2025]

விண்ணப்பதாரரின் பெயர் / Candidate's Name	SUBASHINI A
விண்ணப்பதாரரின் தேர்வு எண். / Candidate's Roll No.	25T21103570127
விண்ணப்பதாரரின் விண்ணப்ப எண். / Candidate's Application No.	TETP2117329
பிறந்த தேதி / Date of Birth	19-11-2002
தந்தை / தாய் பெயர் Father / Mother Name	ANNADURAI R
பாலினம் / Gender	FEMALE
மாற்றுத்திறனாளி / Differently abled	NO
சொல்வதை எழுதுபவர் / Scribe	-
விண்ணப்பித்த மொழி / Language Applied for	Tamil
விண்ணப்பித்த விருப்பப் பாடம் / Optional Subject for	Mathematics and Science
விண்ணப்பதாரரின் முகவரி / Address of the Candidate:	7/128,ARUNTHATHIYAR STRRET, VANAKARANPUDUR, THATHAIYANGARPATTI (PO), NAMAKKAL, NAMAKKAL, NAMAKKAL, PIN - 637014

A. Subashini

Teachers Recruitment Board

Perasiriyar Anbazhagan Kalvi Valagam, College Road, Chennai - 600006.

Hall Ticket for OMR Examination (Objective Type)
for the Tamil Nadu Teacher Eligibility Test, Paper – II - 2025
[Notification No. 03/2025 Dated: 11.08.2025]

விண்ணப்பதாரரின் பெயர் / Candidate's Name	NAGAMMAL A
விண்ணப்பதாரரின் தேர்வு எண். / Candidate's Roll No.	25T21103820131
விண்ணப்பதாரரின் விண்ணப்ப எண். / Candidate's Application No.	TETP2132346
பிறந்த தேதி / Date of Birth	10-04-1990
தந்தை / தாய் பெயர் Father / Mother Name	AYYAPPAN PILLAI SS
பாலினம் / Gender	FEMALE
மாற்றுத்திறனாளி / Differently abled	NO
சொல்வதை எழுதுபவர் / Scribe	-
விண்ணப்பித்த மொழி / Language Applied for	Tamil
விண்ணப்பித்த விருப்பப் பாடம் / Optional Subject for	Mathematics and Science
விண்ணப்பதாரரின் முகவரி / Address of the Candidate:	FLAT.NO:148,TNHB COLONY,TAMBARAM SANATORIUM, CHENNAI, CHENGALPATTU, PIN - 600047
மையக் குறியீட்டுடன் தேர்வு மையம் பெயர், முகவரி மற்றும் மாவட்டம்: / Centre code, Name and Address of the Examination Centre with District:	Centre Code: 0382 District: CHENNAI GRT MAHALAKSHMI VIDYALAYA MATRIC HSS,NO-76,7TH AVENU,ASHOK NAGAR,CHENNAI 600083.

A Nagammal

Schedule of Examination

Date of Exam	Reporting Time	Gate Closing Time	Examination Timings
16.11.2025	8.30 a.m.	9.30 a.m.	10.00 a.m. to 01.00 p.m. – All candidates 10.00 a.m. to 02.00 p.m. – PWD candidates

www.weshineacademy.com
8939 144 344 | 8939 244 344

Teachers Recruitment Board

Perasiriyar Anbazhagan Kalvi Valagam, College Road, Chennai - 600006.

Hall Ticket for OMR Examination (Objective Type)
for the Tamil Nadu Teacher Eligibility Test, Paper – II - 2025
[Notification No. 03/2025 Dated: 11.08.2025]

விண்ணப்பதாரரின் பெயர் / Candidate's Name	RAM PRIYA M
விண்ணப்பதாரரின் தேர்வு எண். / Candidate's Roll No.	25T21203240436
விண்ணப்பதாரரின் விண்ணப்ப எண். / Candidate's Application No.	TETP2196836
பிறந்த தேதி / Date of Birth	04-05-1993
தந்தை / தாய் பெயர் Father / Mother Name	MUTHURAJ G
பாலினம் / Gender	FEMALE
மாற்றுத்திறனாளி / Differently abled	NO
சொல்வதை எழுதுபவர் / Scribe	-
விண்ணப்பித்த மொழி / Language Applied for	Tamil
விண்ணப்பித்த விருப்பப் பாடம் / Optional Subject for	Social Science
விண்ணப்பதாரரின் முகவரி / Address of the Candidate:	1/525,1ST FLOOR,1ST BLOCK, MUGAPPAIR WEST, CHENNAI, THIRUVALLUR, PIN - 600037
மையக் குறியீட்டுடன் தேர்வு மையம் பெயர், முகவரி மற்றும் மாவட்டம்: / Centre code, Name and Address of the Examination Centre with District:	Centre Code: 0324 District: CHENNAI CHENNAI GIRLS HIGHER SECONDARY SCHOOL,NO-2A, SCHOOL ROAD, M H ROAD, PERAMBUR,CHENNAI-600 011.

Schedule of Examination

Date of Exam	Reporting Time	Gate Closing Time	Examination Timings
16.11.2025	8.30 a.m.	9.30 a.m.	10.00 a.m. to 01.00 p.m. – All candidates 10.00 a.m. to 02.00 p.m. – PWD candidates

Teachers Recruitment Board

Perasiriyar Anbazhagan Kalvi Valagam, College Road, Chennai - 600006.

Hall Ticket for OMR Examination (Objective Type)
for the Tamil Nadu Teacher Eligibility Test, Paper – II - 2025
[Notification No. 03/2025 Dated: 11.08.2025]

விண்ணப்பதாரரின் பெயர் / Candidate's Name	GOWTHAMI S
விண்ணப்பதாரரின் தேர்வு எண். / Candidate's Roll No.	25T21133240072
விண்ணப்பதார்ரரின் விண்ணப்ப எண். / Candidate's Application No.	TETP2037725
பிறந்த தேதி / Date of Birth	16-05-1990
தந்தை / தாய் பெயர் Father / Mother Name	SOUNDARAJAN P
பாலினம் / Gender	FEMALE
மாற்றுத்திறனாளி / Differently abled	NO
சொல்வதை எழுதுபவர் / Scribe	-
விண்ணப்பித்த மொழி / Language Applied for	Tamil
விண்ணப்பித்த விருப்பப் பாடம் / Optional Subject for	Mathematics and Science
விண்ணப்பதாரரின் முகவரி / Address of the Candidate:	NO 268,NACHARKUPPAM,NACHARKUPPAM POST, TIRUPATHUR, TIRUPATHUR, PIN - 635710
மையக் குறியீட்டுடன் தேர்வு மையம் பெயர், முகவரி மற்றும் மாவட்டம்: / Centre code, Name and Address of the Examination Centre with District:	Centre Code: 3324 District: TIRUPATTUR MARY IMMACULATE GIRLS HR SEC SCHOOL TIRUPATTURLONDON MISSION ROAD, TIRUPATTUR-635601

S. Gowthami

www.weshineacademy.com 8939 144 344 | 8939 244 344

Teachers Recruitment Board

Perasiriyar Anbazhagan Kalvi Valagam, College Road, Chennai - 600006.

Hall Ticket for OMR Examination (Objective Type)

for the Tamil Nadu Teacher Eligibility Test, Paper – II - 2025

[Notification No. 03/2025 Dated: 11.08.2025]

விண்ணப்பதாரரின் பெயர் / Candidate's Name	PRABHA K
விண்ணப்பதாரரின் தேர்வு எண். / Candidate's Roll No.	25T21102160228
விண்ணப்பதாரரின் விண்ணப்ப எண். / Candidate's Application No.	TETP2077164
பிறந்த தேதி / Date of Birth	24-01-1988
தந்தை / தாய் பெயர் Father / Mother Name	KUMANAN C
பாலினம் / Gender	FEMALE
மாற்றுத்திறனாளி / Differently abled	NO
சொல்வதை எழுதுபவர் / Scribe	-
விண்ணப்பித்த மொழி / Language Applied for	Tamil
விண்ணப்பித்த விருப்பப் பாடம் / Optional Subject for	Mathematics and Science
விண்ணப்பதாரரின் முகவரி / Address of the Candidate:	NO 24. RAMAIYA NAGAR, MEDAVAKKAM, CHENNAI, KANCHEEPURAM, PIN - 600100



Teachers Recruitment Board

Perasiriyar Anbazhagan Kalvi Valagam, College Road, Chennai - 600006.

Hall Ticket for OMR Examination (Objective Type)

for the Tamil Nadu Teacher Eligibility Test, Paper – II - 2025

[Notification No. 03/2025 Dated: 11.08.2025]

விண்ணப்பதாரரின் பெயர் / Candidate's Name	SHIVASANKARI S
விண்ணப்பதாரரின் தேர்வு எண். / Candidate's Roll No..	25T21138190024
விண்ணப்பதாரரின் விண்ணப்ப எண். / Candidate's Application No.	TETP2045008
பிறந்த தேதி / Date of Birth	18-08-1997
தந்தை / தாய் பெயர் Father / Mother Name	SIVANU M
பாலினம் / Gender	FEMALE
மாற்றுத்திறனாளி / Differently abled	NO
சொல்வதை எழுதுபவர் / Scribe	-
விண்ணப்பித்த மொழி / Language Applied for	Tamil
விண்ணப்பித்த விருப்பப் பாடம் / Optional Subject for	Mathematics and Science
விண்ணப்பதாரரின் முகவரி / Address of the Candidate:	1/884, PALANI ANDAVAR NAGAR, DHARAPURAM ROAD, K.CHETTIPALAYAM, TIRUPPUR, TIRUPPUR, PIN - 641604
மையக் குறியீட்டுடன் தேர்வு மையம் பெயர், முகவரி மற்றும் மாவட்டம்: / Centre code, Name and Address of the Examination Centre with District:	Centre Code: 3819 District: VIRUDHUNAGAR CSI GIRLS HR SEC SCHOOL, CSI CHURCH COMPOUND, MADURAI MAINROAD, ARUPPUKOTTAI-626101

Schedule of Examination

Date of Exam	Reporting Time	Gate Closing Time	Examination Timings
16.11.2025	8.30 a.m.	9.30 a.m.	10.00 a.m. to 01.00 p.m. – All candidates 10.00 a.m. to 02.00 p.m. – PWD candidates

PLEASE READ THE FOLLOWING IMPORTANT INSTRUCTIONS CAREFULLY

1. Candidates should download their Hall Ticket through online only as no separate physical copy of this Hall Ticket will be dispatched.
2. Candidates should check their Hall Ticket for the information furnished therein and in case of any discrepancy, it should be immediately reported to the TRB, Chennai for necessary action.
3. The candidates appearing for the examination in their own interest, should check their eligibility in all respects to avoid disappointment if any at later stage and their candidature for this examination is "PURELY PROVISIONAL".
4. Please note that this Hall Ticket does not constitute any offer of employment.
5. NO REQUEST FOR CHANGE OF EXAMINATION CENTRE WILL BE CONSIDERED UNDER ANY CIRCUMSTANCES.
6. No candidate will be allowed to enter into the Examination Hall after gate closing time 09:30 a.m. and should not leave the Examination Hall before 01.00 p.m. for all candidates and 02.00 p.m. for PWD candidates.
7. The candidate must bring this Hall Ticket to the Examination Centre. No candidate will be allowed entry without this Hall Ticket.
8. The candidate is also instructed to bring any one of the following Photo Identification Cards in original viz.
   i. Aadhar Card
   ii. PAN Card

www.weshineacademy.com 8939 144 344 | 8939 244 344

Teachers Recruitment Board

Perasiriyar Anbazhagan Kalvi Valagam, College Road, Chennai - 600006.

Hall Ticket for OMR Examination (Objective Type)
for the Tamil Nadu Teacher Eligibility Test, Paper – II - 2025
[Notification No. 03/2025 Dated: 11.08.2025]

விண்ணப்பதாரரின் பெயர் / Candidate's Name	DEEPA AM
விண்ணப்பதாரரின் தேர்வு எண். / Candidate's Roll No.	25T21103070159
விண்ணப்பதாரரின் விண்ணப்ப எண். / Candidate's Application No.	TETP2331329
பிறந்த தேதி / Date of Birth	30-04-1990
தந்தை / தாய் பெயர் Father / Mother Name	MUNUSAMY A
பாலினம் / Gender	FEMALE
மாற்றுத்திறனாளி / Differently abled	NO
சொல்வதை எழுதுபவர் / Scribe	-
விண்ணப்பித்த மொழி / Language Applied for	Tamil
விண்ணப்பித்த விருப்பப் பாடம் / Optional Subject for	Mathematics and Science
விண்ணப்பதாரரின் முகவரி / Address of the Candidate:	NO 67 A THULUKKANATHAMMAN KOVIL STREET BHARATHI NAGAR ZAMIN PALLAVARAM, CHENNAI, KANCHEEPURAM CHENGALPET, PIN - 600043
மையக் குறியீட்டுடன் தேர்வு மையம் பெயர், முகவரி மற்றும் மாவட்டம்: / Centre code, Name and Address of the Examination Centre with District:	Centre Code: 0307 District: CHENNAI PERUNTHALAIVAR KAMARAJAR GOVERNMENT GIRLS HIGHER SECONDARY SCHOOL,NORTH PARK STREET, VENKATAPURAM .AMBATTUR,CHENNAI-600 053.

Schedule of Examination

Date of Exam	Reporting Time	Gate Closing Time	Examination Timings
16.11.2025	8.30 a.m.	9.30 a.m.	10.00 a.m. to 01.00 p.m. – All candidates 10.00 a.m. to 02.00 p.m. – PWD candidates

Teachers Recruitment Board

Perasiriyar Anbazhagan Kalvi Valagam, College Road, Chennai - 600006.

Hall Ticket for OMR Examination (Objective Type)
for the Tamil Nadu Teacher Eligibility Test, Paper – II - 2025
[Notification No. 03/2025 Dated: 11.08.2025]

விண்ணப்பதாரரின் பெயர் / Candidate's Name	NIRUBA MAYIL V
விண்ணப்பதாரரின் தேர்வு எண். / Candidate's Roll No.	25T21230060158
விண்ணப்பதாரரின் விண்ணப்ப எண். / Candidate's Application No.	TETP2052064
பிறந்த தேதி / Date of Birth	12-06-1981
தந்தை / தாய் பெயர் Father / Mother Name	VEERAPERUMAL R
பாலினம் / Gender	FEMALE
மாற்றுத்திறனாளி / Differently abled	NO
சொல்வதை எழுதுபவர் / Scribe	-
விண்ணப்பித்த மொழி / Language Applied for	Tamil
விண்ணப்பித்த விருப்பப் பாடம் / Optional Subject for	Social Science
விண்ணப்பதாரரின் முகவரி / Address of the Candidate:	5/90 MIDDLE STREET SRI MOOLAKARAI SRIVAIKUNDAM TALUK, THOOTHUKUDI, THOOTHUKUDI, PIN - 628620

www.weshineacademy.com
8939 144 344 | 8939 244 344

Hall Ticket for OMR Examination (Objecti

for the Tamil Nadu Teacher Eligibility Test, Pa

[Notification No. 03/2025 Dated: 11.0

ிண்ணப்பதாரரின் பெயர் / ndidate's Name	SANGEETHA R
ண்ணப்பதாரரின் தேர்வு எண். / lidate's Roll No.	25T21127200028
ணப்பதாரரின் விண்ணப்ப எண். / date's Application No.	TETP2051771
தேதி / Birth	01-07-1982
/ தாய் பெயர் Mother Name	RAJA B
/	FEMALE
றனாளி / bled	NO
எழுதுபவர் /	-

Teachers Recruitment Board

Perasiriyar Anbazhagan Kalvi Valagam, College Road, Chennai - 600006.

Hall Ticket for OMR Examination (Objective Type)

for the Tamil Nadu Teacher Eligibility Test, Paper – II - 2025

[Notification No. 03/2025 Dated: 11.08.2025]

விண்ணப்பதாரரின் பெயர் / Candidate's Name	LAKSHMI R
விண்ணப்பதாரரின் தேர்வு எண். / Candidate's Roll No.	25T21202070216
விண்ணப்பதாரரின் விண்ணப்ப எண். / Candidate's Application No.	TETP2145208
பிறந்த தேதி / Date of Birth	18-05-1985
தந்தை / தாய் பெயர் Father / Mother Name	RASPAL P
பாலினம் / Gender	FEMALE
மாற்றுத்திறனாளி / Differently abled	NO
சொல்வதை எழுதுபவர் / Scribe	-
விண்ணப்பித்த மொழி / Language Applied for	Tamil
விண்ணப்பித்த விருப்பப் பாடம் / Optional Subject for	Social Science
விண்ணப்பதாரரின் முகவரி / Address of the Candidate:	24/1 KANCHIPURAM HIGH ROAD , NO 65 PALUR VILLAGE AND POST, PALUR, CHENGALPATTU, PIN - 603101
மையக் குறியீட்டுடன் தேர்வு மையம் பெயர், முகவரி மற்றும் மாவட்டம்: / Centre code, Name and Address of the Examination Centre with District:	Centre Code: 0207 District: CHENGALPATTU GOVT GIRLS HR SEC SCHOOL, ORAGADAM SALAI(OPPOSITE TO TALUK OFFICE) THIRUKALUKUNDRAM, CHENGALPATTU DIST -603109

www.weshineacademy.com 8939 144 344 | 8939 244 344

Teachers Recruitment Board

Perasiriyar Anbazhagan Kalvi Valagam, College Road, Chennai - 600006.

Hall Ticket for OMR Examination (Objective Type)
for the Tamil Nadu Teacher Eligibility Test, Paper – II - 2025
[Notification No. 03/2025 Dated: 11.08.2025]

விண்ணப்பதாரரின் பெயர் / Candidate's Name	DEEPA AM
விண்ணப்பதாரரின் தேர்வு எண். / Candidate's Roll No.	25T21103070159
விண்ணப்பதாரரின் விண்ணப்ப எண். / Candidate's Application No.	TETP2331329
பிறந்த தேதி / Date of Birth	30-04-1990
தந்தை / தாய் பெயர் Father / Mother Name	MUNUSAMY A
பாலினம் / Gender	FEMALE
மாற்றுத்திறனாளி / Differently abled	NO
சொல்வதை எழுதுபவர் / Scribe	-
விண்ணப்பித்த மொழி / Language Applied for	Tamil
விண்ணப்பித்த விருப்பப் பாடம் / Optional Subject for	Mathematics and Science
விண்ணப்பதாரரின் முகவரி / Address of the Candidate:	NO 67 A THULUKKANATHAMMAN KOVIL STREET BHARATHI NAGAR ZAMIN PALLAVARAM, CHENNAI, KANCHEEPURAM CHENGALPET, PIN - 600043
மையக் குறியீட்டுடன் தேர்வு மையம் பெயர், முகவரி மற்றும் மாவட்டம்: / Centre code, Name and Address of the Examination Centre with District:	Centre Code: 0307 District: CHENNAI PERUNTHALAIVAR KAMARAJAR GOVERNMENT GIRLS HIGHER SECONDARY SCHOOL,NORTH PARK STREET, VENKATAPURAM .AMBATTUR,CHENNAI-600 053.

Schedule of Examination

Date of Exam	Reporting Time	Gate Closing Time	Examination Timings
16.11.2025	8.30 a.m.	9.30 a.m.	10.00 a.m. to 01.00 p.m. – All candidates 10.00 a.m. to 02.00 p.m. – PWD candidates

Teachers Recruitment Board

Perasiriyar Anbazhagan Kalvi Valagam, College Road, Chennai - 600006.

Hall Ticket for OMR Examination (Objective Type)
for the Tamil Nadu Teacher Eligibility Test, Paper – II - 2025
[Notification No. 03/2025 Dated: 11.08.2025]

விண்ணப்பதாரரின் பெயர் / Candidate's Name	NIRUBA MAYIL V
விண்ணப்பதாரரின் தேர்வு எண். / Candidate's Roll No.	25T21230060158
விண்ணப்பதாரரின் விண்ணப்ப எண். / Candidate's Application No.	TETP2052064
பிறந்த தேதி / Date of Birth	12-06-1981
தந்தை / தாய் பெயர் Father / Mother Name	VEERAPERUMAL R
பாலினம் / Gender	FEMALE
மாற்றுத்திறனாளி / Differently abled	NO
சொல்வதை எழுதுபவர் / Scribe	-
விண்ணப்பித்த மொழி / Language Applied for	Tamil
விண்ணப்பித்த விருப்பப் பாடம் / Optional Subject for	Social Science
விண்ணப்பதாரரின் முகவரி / Address of the Candidate:	5/90 MIDDLE STREET SRI MOOLAKARAI SRIVAIKUNDAM TALUK, THOOTHUKUDI, THOOTHUKUDI, PIN - 628620

www.weshineacademy.com
8939 144 344 | 8939 244 344

$16^3 + 7^3 - 23^3$ ன் மதிப்பு

The value of $16^3 + 7^3 - 23^3$ is

$16^3 + 7^3 - 23^3$ ன் மதிப்பு

The value of $16^3 + 7^3 - 23^3$ is

(A) -7728

(B) 7028

(C) 7728

(D) -7718

1, 1, 2, 8, 3, 27, 4, ... என்ற தொடரின் 4-ற்கு அடுத்த உறுப்பு?

Find the next term of 4 in the series is 1, 1, 2, 8, 3, 27, 4, ...

1, 1, 2, 8, 3, 27, 4, ... என்ற தொடரின் 4-ற்கு அடுத்த உறுப்பு?

Find the next term of 4 in the series is 1, 1, 2, 8, 3, 27, 4, ...

(A) 31

(B) 29

(C) 16

(D) 64

SINCE 2013 We Shine Academy® Guiding you to get through TNPSC | TNUSRB | TRB | TET | SSC | BANK EXAM

ஒரு முக்கோணத்தின் மூன்று கோணங்கள் $x - 30°$, $x - 45°$, $x + 15°$ எனில் x-ன் மதிப்பு

Three angles of a triangle are $x - 30°$, $x - 45°$, $x + 15°$, find the value of x.

ஒரு முக்கோணத்தின் மூன்று கோணங்கள் $x - 30°$, $x - 45°$, $x + 15°$ எனில் x-ன் மதிப்பு

Three angles of a triangle are $x - 30°$, $x - 45°$, $x + 15°$, find the value of x.

(A) 60°

(B) 40°

(C) 80°

(D) 100°

SINCE 2013 We Shine Academy® Guiding you to get through TNPSC | TNUSRB | TRB | TET | SSC | BANK EXAM

ரூ. 12,000-க்கு 10% வட்டி வீதம் எனில் இரண்டு ஆண்டுகளில் கிடைக்கும் கூட்டு வட்டிக்கும் தனிவட்டிக்கும் உள்ள வித்தியாசம்

The difference between simple interest and compound interest for a sum of Rs. 12,000 lent at 10% per annum in 2 years, is

ரூ. 12,000-க்கு 10% வட்டி வீதம் எனில் இரண்டு ஆண்டுகளில் கிடைக்கும் கூட்டு வட்டிக்கும் தனிவட்டிக்கும் உள்ள வித்தியாசம்

The difference between simple interest and compound interest for a sum of Rs. 12,000 lent at 10% per annum in 2 years, is

(A) Rs. 80

(B) Rs. 90

(C) Rs. 120

(D) Rs. 100

ஒரு செவ்வக அறையில் சமதள ஆடிகள் பொருத்தப்பட்ட இரண்டு அடுத்தடுத்த சுவர்களுக்கு இடையே நீ நிற்கிறாய் எனில், உனது மொத்த பிம்பங்களின் எண்ணிக்கை எத்தனை?

If you stand in a rectangular room, where two adjacent walls are covered with plane mirrors, the total number of your images will be

ஒரு செவ்வக அறையில் சமதள ஆடிகள் பொருத்தப்பட்ட இரண்டு அடுத்தடுத்த சுவர்களுக்கு இடையே நீ நிற்கிறாய் எனில், உனது மொத்த பிம்பங்களின் எண்ணிக்கை எத்தனை?

If you stand in a rectangular room, where two adjacent walls are covered with plane mirrors, the total number of your images will be

(A) infinity

(B) 1

(C) 3

(D) 0

ஒரு முக்கோணத்தின் அடிப்பக்கம், உயரத்தின் 4 மடங்குக்கு சமம் மற்றும் அதன் பரப்பளவு 50 மீ^{2} எனில் அதன் அடிப்பக்க அளவு

The base of a triangle is four times its height and its area is 50 m^2. The length of the base is

ஒரு முக்கோணத்தின் அடிப்பக்கம், உயரத்தின் 4 மடங்குக்கு சமம் மற்றும் அதன் பரப்பளவு 50 மீ^{2} எனில் அதன் அடிப்பக்க அளவு

The base of a triangle is four times its height and its area is 50 m^2. The length of the base is

(A) 10 m

(B) 15 m

(C) 20 m

(D) 25 m

A ஒரு வேலையை 20 நாட்களிலும், B அதை 25 நாட்களிலும் செய்து முடிப்பர். இருவரும் சேர்ந்து அவ்வேலையைச் செய்து ரூ. 3,600-ஐ ஈட்டினால் அத்தொகையில் A-ன் பங்கு

A can do a piece of work in 20 days and B can do it in 25 days. Both of them finished the work and earned Rs. 3,600. Then A's share is

A ஒரு வேலையை 20 நாட்களிலும், B அதை 25 நாட்களிலும் செய்து முடிப்பர். இருவரும் சேர்ந்து அவ்வேலையைச் செய்து ரூ. 3,600-ஐ ஈட்டினால் அத்தொகையில் A-ன் பங்கு

A can do a piece of work in 20 days and B can do it in 25 days. Both of them finished the work and earned Rs. 3,600. Then A's share is

(A) Rs. 1,600

(B) Rs. 2,000

(C) Rs. 3,000

(D) Rs. 3,100

$\left(\frac{7}{12}\right)^{-4} \times \left(\frac{7}{12}\right)^{3x} = \left(\frac{7}{12}\right)^{5}$ எனில் x-ன் மதிப்பு

If $\left(\frac{7}{12}\right)^{-4} \times \left(\frac{7}{12}\right)^{3x} = \left(\frac{7}{12}\right)^{5}$; then the value of x is

$\left(\frac{7}{12}\right)^{-4} \times \left(\frac{7}{12}\right)^{3x} = \left(\frac{7}{12}\right)^{5}$ எனில் x-ன் மதிப்பு

If $\left(\frac{7}{12}\right)^{-4} \times \left(\frac{7}{12}\right)^{3x} = \left(\frac{7}{12}\right)^{5}$; then the value of x is

(A) -1

(B) 1

(C) 2

(D) 3

22 ஆட்கள் 10 நாட்களில் 110 மீ நீளமுள்ள சுவரை கட்டி முடித்தால், 30 ஆட்கள் 6 நாட்களில் கட்டி முடிக்கும் சுவரின் நீளம்

If 22 men can build a wall of 110 meters in 10 days. The length of a similar wall built by 30 men in 6 days is

SINCE 2013 We Shine Academy® Guiding you to get through TNPSC | TNUSRB | TRB | TET | SSC | BANK EXAM

22 ஆட்கள் 10 நாட்களில் 110 மீ நீளமுள்ள சுவரை கட்டி முடித்தால், 30 ஆட்கள் 6 நாட்களில் கட்டி முடிக்கும் சுவரின் நீளம்

If 22 men can build a wall of 110 meters in 10 days. The length of a similar wall built by 30 men in 6 days is

(A) 100 mts

(B) 90 mts

(C) 80 mts

(D) 70 mts

SINCE 2013 We Shine Academy® Guiding you to get through TNPSC | TNUSRB | TRB | TET | SSC | BANK EXAM

ஒரு செவ்வகத்தின் நீள அகலங்களின் விகிதம் 4 : 7 ஆகும். அகலம் 77 செ.மீ எனில் அதன் நீளத்தைக் காண்க

If the ratio of length and breadth of a rectangle is 4 : 7. Find the length while its breadth is 77 cm.

SINCE 2013 We Shine Academy® Guiding you to get through TNPSC | TNUSRB | TRB | TET | SSC | BANK EXAM

ஒரு செவ்வகத்தின் நீள அகலங்களின் விகிதம் 4 : 7 ஆகும். அகலம் 77 செ.மீ எனில் அதன் நீளத்தைக் காண்க

If the ratio of length and breadth of a rectangle is 4 : 7. Find the length while its breadth is 77 cm.

(A) 22 cm

(B) 33 cm

(C) 44 cm

(D) 55 cm

Thank You